பேராவல் காவலர் தேர்வு பயிற்சி மையம்

(அரசு பதிவு பெற்றது)

1F/10, இந்தியன் பேங்க் மேல்மாடி, பழைய பை-பாஸ் ரோடு,
கணபதி ஹார்டுவேர்ஸ் எதிர்புறம், வேலூர் -638 182,
பரமத்தி வேலூர் வட்டம், நாமக்கல் மாவட்டம்.
அலுவலகம் அலைபேசி: 96776 26663, 96776 28444

Website: www.peraavalacademy.com

Founder & Chairman

G. VIJAYARAGAVAN M.Sc., M.B.A., M.A.,

மொத்த கேள்விகள்:140
நேரம்: 2 மணி 30 நிமிடங்கள்

பொது அறிவு

மொத்த மதிப்பெண்:70

1. மருது சகோதரர்கள் ஆட்சி புரிந்த பாளையம்
   (A) தஞ்சாவூர் (B) நாகப்பட்டினம் (C) பாஞ்சாலங்குறிச்சி (D) சிவகங்கை
2. பஞ்ச பாண்டவ ரதங்கள் அமைந்துள்ள இடம்
   (A) நெல்லை (B) மதுரை (C) விருதுநகர் (D) மாமல்லபுரம்
3. 1947 இல் காஷ்மீர் அரசராக இருந்தவர்?
   (A) ரஞ்சித் சிங் (B) ஃபரூக் அப்துல்லா (C) சேக் அப்துல்லா (D) ஹரி சிங்
4. வியன்னா என்ற நகரம் எந்த நாட்டின் தலைநகர்?
   (A) ஆஸ்திரேலியா (B) பெல்ஜியம் (C) ஆஸ்திரியா (D) ஹங்கேரி
5. அந்தமான் தீவுகள் சுமார் எத்தனை தீவுகளைக் கொண்டது?
   (A) 100 (B) 200 (C) 300 (D) 400
6. கிளியோபாட்ரா என்ற இராணி ஆட்சிபுரிந்த நாடு எது?
   (A) ரோம் (B) எகிப்து (C) கிரீஸ் (D) இங்கிலாந்து
7. தமிழக சட்டப்பேரவை மொத்த உறுப்பினர்களின் எண்ணிக்கை?
   (A) 234 (B) 235 (C) 260 (D) இவற்றில் எதுவுமில்லை
8. உயர்நீதிமன்ற நீதிபதிகளின் ஓய்வு கால வயது?
   (A) 65 (B) 60 (C) 62 (D) 58
9. மார்டின் லூதர் கிங் சார்ந்த நாடு எது?
   (A) ஜெர்மனி (B) இங்கிலாந்து (C) அமெரிக்கா (D) ரஷ்யா
10. "ஃபிடல் கேஸ்ட்ரோ" என்பவர் யார்?
   (A) கால்பந்து வீரர் (B) விண்வெளி வீரர்
   (C) கியூபா போராட்டக்காரர் (D) முன்னாள் கியூபா அதிபர்
11. அன்னை (The Mother) என்ற நூலை இயற்றியவர் யார்?
   (A) லியோ டால்ஸ்டாய் (B) தாகூர்
   (C) மாக்ஸிம் கார்க்கி (D) சார்லஸ் டிக்கன்ஸ்
12. தாலிபன் தீவிரவாதிகள் சார்ந்த நாடு?
   (A) ஆப்கானிஸ்தான் (B) இந்தியா (C) பாகிஸ்தான் (D) ஈராக்
13. இந்தோனேஷியா நாட்டை அடிமைப்படுத்திய நாடு எது?
   (A) பெல்ஜியம் (B) பிரான்ஸ் (C) இங்கிலாந்து (D) ஹாலந்து

14. சிட்டிசன் எனும் சொல் எம்மொழியிலிருந்து பெறப்பட்டது?

(A) கிரேக்கம் (B) இலத்தீன் (C) பிரெஞ்சு (D) ஆங்கிலம்

15. ஆளுமை ஹார்மோன் என்பது எது?

(A) தைராக்ஸின் (B) அட்ரீனல் (C) பிட்யூட்டரி (D) கணையம்

16. அதிக கொதிநிலை கொண்ட சேர்மம் எது?

(A) CH_3 (B) NH_3 (C) H_2SO_4 (D) HCL

17. மனிதனின் சராசரி உடல் வெப்பநிலை என்ன?

(A) 98.4 - 98.6F (B) 96.6 - 96.8F (C) 94.4 - 98.6F (D) 98.4 - 99.6F

18. ஆல்டிஹைடுகளின் வினை செயல் தொகுதி எது?

(A) COOH (B) CO (C) CHO (D) OH

19. கெப்ளரின் 3-ம் விதி எவ்வாறு அழைக்கப்படுகிறது?

(A) சுற்றுப்பாதை விதி (B) சுற்றுக்கால விதி (C) பரப்புகளின் விதி (D) கோள்களின் விதி

20. அழுத்த ஆற்றல் + இயக்க ஆற்றல் + நிலை ஆற்றல் = மாறிலி என்பது எந்த சமன்பாடு

(A) ஜீல் சமன்பாடு (B) ஆற்றல் சமன்பாடு

(C) பெர்னௌலி சமன்பாடு (D) நல்லியல்பு சமன்பாடு

21. கிலோஸிஸ் நோய் எந்த விட்டமின் குறைப்பாட்டால் ஏற்படுகிறது.

(A) வைட்டமின் B_1 (B) வைட்டமின் B_6

(C) வைட்டமின் B_5 (D) வைட்டமின் B_2

22. புரோகேரியாட்டிக் செல்லுக்கு எடுத்துக்காட்டு எது?

(A) பாக்டீரியா (B) அமீபா (C) தாவரம் (D) விலங்கு

23. வெப்பம் ஒருவகை ஆற்றல் என்பதை கூறியவர் யார்?

(A) ஜேம்ஸ் ஜீல் (B) பாரடே (C) நியூட்டன் (D) பாஸ்கல்

24. புவியின் நிழல் சந்திரன் மீத விழும்போது ஏற்படுவது

(A) சந்திர கிரகணம் (B) சூரிய கிரகணம் (C) அமாவாசை (D) பௌர்ணமி

25. எண்ணெயால் ஏற்பட்ட தீயைக் கட்டுப்படுத்த பயன்படுவது எது?

(A) நீர் (B) .:.போம்கைட் (C) ஹைட்ரஜன் (D) CO_2

26. பனை போன்ற ஜம்னோஸ் பெர்ம் எது?

(A) சைக்கஸ் (B) ரிக்ஸியா (C) பெரணி (D) யூகலிப்டஸ்

27. அழுத்தத்தின் அலகு நி.மீ-2 இந்த அலகை இவ்வாறு கூறலாம்?

(A) நியூட்டன் (B) கூழும் (C) பாஸ்கல் (D) டெஸ்லா

28. பொருட்களை திரவ வடிவில் உட்கொள்ளும் தாவரம் எது?

(A) பேகோ சைட்டாஸிஸ் (B) எக்ஜோ சைட்டாஸிஸ்

(C) பினோ சைட்டாஸிஸ் (D) எண்டோ சைட்டாஸிஸ்

29. சைலம் செல்களில் உயிருள்ள திசு எது?

(A) குழாய்கள் (B) டிரக்கீடுகள் (C) சைலம் பாரன்கைமா (D) சைலம் நார்கள்

30. நைட்ரஜனை நிலைப்படுத்தும் பாக்டீரியா எது?

(A) சூடோ மோனஸ் (B) நைட்ரசோமோனஸ் (C) அஸாட்டோ பாக்டர் (D) ரைசோபியம்

31. தொழுநோய் எந்த பாக்டீரியாவால் ஏற்படுகிறது?

(A) ஸ்டெப்ரோ காக்கஸ் (B) ஆக்கோ பாக்டீரியம் டியூபர்குளோசிஸ்

(C) எர்ஸினியா பெர்லிடிஸ் (D) மைக்கோ பாக்டீரியம் லெப்ரே

32. விரல் ரேகைகள் பற்றிய படிப்பு எது?

(A) கார்டோகிராபி (B) கிரிப்டோகிராபி (C) டெக்டைலோகிராபி (D) லெக்ஸிகோ கிராபி

04268-221524,9677626663, 9677628444
www.peraavalacademy.com

33. கூழ்மங்களை தூய்மைபடுத்தும் முறை எது

(A) டையாலாசிஸ் (B) படிய வைத்தல் (C) வடிகட்டுதல் (D) உறிஞ்சுதல்

34. சிறுநீரகத்தில் காணப்படும் சேர்மம் எது?

(A) கால்சியம் சல்பேட் (B) கால்சியம் ஆக்சலேட் (C) கால்சியம் குளோரைட் (D) யூரிக்ரோபோளின்

35. எலக்ட்ரான்களின் ஈரியல்பு தன்மையை விளக்கியவர் யார்?

(A) J.J. தாம்சன் (B) ஐன்ஸ்டீன் (C) டி-பிராக்ளே (D) பாலிங்

36. கார்பன் வயது கணிப்பில் பயன்படும் ஐசோடோப்பு?

(A) $_6C^{16}$ (B) $_6C^{18}$ (C) $_8C^{16}$ (D) $_6C^{14}$

37. மின்பாயத்தின் அலகு எது?

(A) VM^{-1} (B) NC^{-1} (C) $NM^2 \ C^{-1}$ (D) H= I^2 Rt

38. எலும்பு மஜ்ஜையில் காணப்படும் புற்றுநோய் எது?

(A) லுக்கேமியா (B) கார்சினோமோ (C) லிம்பபோமா (D) சார்கோமா

39. தட்டு எபிதீலியம் என்ற செல் எந்த வடிவமுடையது?

(A) வட்டம் (B) முட்டை (C) உருளை (D) பல்கோணம்

40. அரக்னாய்டு என்பது மூளையின் எந்த உறை

(A) வெளி உறை (B) மேல் உறை (C) உள் உறை (D) நடு உறை

41. ஐந்தினை ஐம்பது என்ற நூலின் ஆசிரியர்

(A) கண்ணன் சேந்தனார் (B) மாறன் பொறையனார் (C) காரியாசன் (D) யாருமில்லை

42. டாக்டர் மு. வரதராசனார் எழுதிய முதல் புதினம்

(A) செந்தாமரை (B) அகல்விளக்கு (C) வாடாமலர் (D) கரித்துண்டு

43. ஒரு செவ்வகத்தின் சுற்றளவு 36cm, அதன் பரப்பளவு 80cm எனில் அதன் அகலம் எவ்வளவு?

(A) 6 cm (B) 10 cm (C) 4 cm (D) 8 cm

44. கண்ணன் பிறந்தது 29.02.1960 இன்றுவரை அவன் எத்தனை பிறந்தநாள் கொண்டாடியிருப்பான்?

(A) 48 (B) 12 (C) 13 (D) 24

45. "பூத்லோகியா" என்ற உலகிலேயே இரண்டாவது அதிக காரணமான மிளகாய் இந்தியாவின் எந்த மாநிலத்தில் விளைகிறது?

(A) ஆந்திரப்பிரதேசம் (B) அஸ்ஸாம் (C) உத்தரகாண்ட் (D) பஞ்சாப்

46. 1 + 3 + 5 + ...+19 இன் கூட்டுத்தொகை என்ன?

(A) 75 (B) 100 (C) 120 (D) 95

47. Log_5 125 -இன் மதிப்பு என்ன?

(A) 3 (B) 2 (C) 4 (D) 5

48. _____ there's a way choose the connect pharase that suits well to the proverb

(A) Where there's a read (B) Hone's place (C) Where theme's life (D) None of above

49. Fill the blank with appropriate preposition, "The nuneration was not adequate _____ the work done.

(A) to (B) of (C) with (D) for

50. Give the synonym of "colleague"

(A) Relative (B) coworker (C) Friend (D) Enermy

51. Give the Antonym of "approval"

(A) Assessment (B) Criticism (C) Judgement (D) Analysis

52. Match the suffix word in (use, truth, care)

(A) -ful (B) –able (C) -ing (D) none of above

04268-221524,9677626663, 9677628444
www.peraavalacademy.com

53. அஞ்சுகம் எனும் சொல்லின் பொருள்

(A) பயம் (B) கோவில் (C) கிளி (D) எதுமில்லை

54. பீடு என்பதன் பொருள்

(A) உடல் (B) நெற்றி (C) சங்கம் (D) ஒழுகும் நீர்

55.

1	வதுவை	-	அ	பேரொளி
2	சிலை	-	ஆ	திருமணம்
3	காந்தி	-	இ	கடல்
4	வேலை	-	ஈ	வில்

(A) ஆ ஈ அ இ (B) ஆ ஈ இ அ (C) ஆ அ இ ஈ (D) அ ஆ இ ஈ

56. தென்னிந்தியாவின் புதைபொருள் ஆராய்ச்சியின் முன்னோடி யார்?

(A) புரூஸ் போர்ட் (B) வி.ர.ஸ்மித் (C) ஜான்மார்சல் (D) பி.இ. இராபர்ட்

57. லோத்தல் பகுதியை கண்டுபிடித்தவர் யார்?

(A) Dr. எஸ்.ஆர். ராவ் (B) சர் ஜான் மார்சல் (C) ஆர்.டி. பானர்ஜி (D) மார்டிமர் வீலர்

58. பார்சி மதத்தை தொடங்கியவர்.

(A) மகாவீரர் (B) குருநானக் (C) சொராஸ்டர் (D) பார்சவநாத்

59. கீழ்க்கண்டவற்றுள் சமண இலக்கியம் யாரை "ஸ்ரேனிகா" என்று அழைக்கின்றனர்.

(A) பிம்பிசாரர் (B) அசோகர் (C) அஜாத சத்ரு (D) சமுத்திர குப்தர்

60. செங்கிஸ்கான் எந்த ஆண்டு இந்தியா மீது படையெடுத்தார்?

(A) 1221 (B) 1271 (C) 1331 (D) 1332

61. நிலையான நிலவரித்திட்டம் எந்த ஆண்டு அறிமுகப்படுத்தப்பட்டது?

(A) 1790 (B) 1791 (C) 1792 (D) 1793

62. தொழில் நுட்ப கல்வியின் தந்தை யார்?

(A) பெண்டிங் பிரபு (B) டல்ஹௌசி பிரபு (C) ரிப்பன் பிரபு (D) கார் மன்றோ

63. இந்திய தேசிய இராணுவத்தை நிறுவியவர் யார்?

(A) புலபாய் தேசாய் (B) ஆசப் அலி (C) ராஷ் பிகாரி போஸ் (D) இராஜாஜி

64. இரஷ்யப் புரட்சி ஏற்பட்ட ஆண்டு

(A) 1789 (B) 1917 (C) 1911 (D) 1776

65. அரசியலமைப்பின் பல்வேறு அம்சங்களை ஆய்வு செய்ய எத்தனை குழுக்கள் அமைக்கப்பட்டன

(A) 12 (B) 10 (C) 15 (D) 13

66. தேசிய ஒருமைப்பாடு என்ற கருத்தை கொணர்ந்தவர்

(A) நேரு (B) இராஜாஜி (C) நந்தலால்போஸ் (D) முன்ஷி

67. பிறப்பு/இறப்பு விகிதம் எப்பொழுது கொண்டுவரப்பட்டது?

(A) 1967 (B) 1969 (C) 1970 (D) 1975

68. சுரண்டலுக்கு எதிரான உரிமை

(A) Art -21 (B) Art -22 (C) Art -23 (D) Art -24

69. தேசிய வளர்ச்சி குழு ஏற்படுத்தப்பட்ட ஆண்டு?

(A) 1950 (B) 1952 (C) 1954 (D) 1956

70. முதல் பெண் ஆளுநர் யார்?

(A) கிருபாளனி (B) சரோஜினி நாயுடு (C) இந்திராகாந்தி (D) எவரும் இல்லை

04268-221524,9677626663, 9677628444
www.peraavalacademy.com

POLICE

இரண்டாம் நிலை காவலர்கள்/ சிறைக்காவலர்கள்/தீயணைப்பாளர்கள்
மற்றும்
தொழில் நுட்ப சார்பு ஆய்வாளர்கள் (TECHNICAL SI)
தேர்வுக்கான பயிற்சி

தமிழக காவல்துறையில் விரைவில் அறிவிக்கப்படவுள்ள இப் பணியிடங்களுக்கான எழுத்துத் தேர்வு மற்றும் உடல் தகுதி/உடல் திறன் தேர்வுகளுக்கான பயிற்சி வகுப்புகள் சிறப்பான முறையில் நடைபெற்று வருகிறது

பயிற்சியின் சிறப்பு அம்சங்கள்

- மிக மிக குறைந்த பயிற்சிக் கட்டணம். மிக சிறந்த பயிற்சி.
- எழுத்துத் தேர்வுக்கான பயிற்சி மற்றும் 50 மாதிரி எழுத்துத் தேர்வுகள்.
- உடல் தகுதி தேர்வுக்கான பயிற்சி மற்றும் 25 மாதிரி உடல் தகுதி தேர்வுகள்.
- உளவியல், கணிதம் பாடங்கள் எளிதில் புரியம் வகையில் சிறப்பு பயிற்சி.
- கயிறு ஏற சிறப்பு பயிற்சி மற்றும் உடல் எடை குறைக்க/ அதிகரிக்க சிறப்பு பயிற்சி. உடற் பயிற்சி செய்ய சிறப்பு ஜிம் வசதி உண்டு.
- தற்காப்பு கலை, நீச்சல், மலையேற்றம், யோகா, பர்ஸ்னாலிட்டி டெவலப்மென்ட் போன்ற சிறப்பு பயிற்சி.
- ஓய்வு பெற்ற காவல் துறை அதிகாரிகள் மற்றும் இராணுவ அதிகாரிகளைக் கொண்டு சிறப்பு பயிற்சிகள் மற்றும் கலந்தாய்வுகள் நடத்தப்படுகின்றன.
- தங்குமிடம், உணவு குறைந்த கட்டணத்தில் ஏற்பாடு செய்து தரப்படும். பெண்களுக்கு பாதுகாப்பான ஹாஸ்டல் வசதி உண்டு.
- எங்கள் பயிற்சியாளர்கள் அளித்த பயிற்சிகள் மூலம் 1,000-க்கும் மேற்பட்ட மாணவ, மாணவியர் சீருடைப் பணியாளர் தேர்வில் வெற்றி பெற்றுள்ளனர்.

POLICE /SI தேர்வுகளுக்கான பாடக் கையேடுகள்(Materials) குறைந்த விலையில் கிடைக்கும்.50,000-கும் மேற்பட்ட தேர்வில் எதிர்பார்க்கபடும் முக்கியவினாக்கள்,முந்தைய வருட வினாத்தாள்கள், சமச்சீர் கல்வி முக்கிய பாடக்குறிப்புகள் மற்றும் பொதுஅறிவு, உளவியல், கணிதம் மாதிரி வினா-விடைகள் உள்ளடங்கியது.



பேராவல் காவலர் தேர்வு பயிற்சி மையம்

(அரசு பதிவு எண்.17/2013)

நிறுவனர்:**G. விஜயராகவன் M.Sc., M.B.A., M.A.,**
1F/10, இந்தியன் பேங்க் மேல்மாடி, பழைய பை-பாஸ் ரோடு,
பரமத்தி வேலூர், நாமக்கல் மாவட்டம்.
போன்: 04268-221524, 9677626663, 9677628444
www.peraavalacademy.com

71. நாகலாந்து மாநிலத்தின் தலைநகரம்

(A) அய்ஜ்வால் (B) கேங்டாக் (C) அகர்த்தாலா (D) கோஹிமா

72. போனஸ் சட்டம் எப்பொழுது கொண்டுவரப்பட்டது?

(A) 1955 (B) 1965 (C) 1985 (D) 1995

73. இந்தியாவின் மத்திய தீர்க்க ரேகையானது

(A) $52^0\ 30^0$ (B) $62^0\ 30^0$ (C) $72^0\ 30^0$ (D) $82^0\ 30^0$

74. உலக மலைகள் தினம்?

(A) Dec – 11 (B) Dec – 12 (C) Dec - 13 (D) Dec - 14

75. இந்திய எல்லைக்குட்பட்ட பகுதியில் உள்ள தீவுகள் எத்தனை?

(A) 257 (B) 267 (C) 247 (D) 267

76. 7290 மி.லி உள்ள திரவத்தில் பாலும், தண்ணீரும் 7:2 என்ற விகிதத்தில் உள்ளன. எந்த அளவு தண்ணீர் ஊற்றினால் அந்தக் கலவை 7:3 என்ற விகிதத்திற்கு வரும்?

(A) 600 மி.லி. (B) 710 மி.லி. (C) 520 மி.லி. (D) 810 மி.லி.

77. தீபகற்ப ஆறுகளில் மிக நீளமான ஆறு

(A) கிருஷ்ணா (B) கோதாவரி (C) மகாநதி (D) காவேரி

78. அதிக அளவில் மழை பெய்த இடம்

(A) மும்பை (2005) (B) சிரபுஞ்சி (1910) (C) சிட்னி (1946) (D) இந்தோனேசியா (1974)

79. சுற்றுப் புறச் சூழல் பாதுகாப்பு திட்டம் எப்போது அமல்படுத்தப்பட்டது?

(A) 1982 (B) 1986 (C) 1984 (D) 1980

80. இந்தியாவில் யுரேனியம் தாது கிடைக்குமிடம்?

(A) ஜோத்பூர் (B) ஜடுகுடா (C) ஜேவார் (D) சண்டிகர்

(உளவியல்) பகுதி - ஆ

81. அருண் என்பவர் ஏழு பாடங்களில் எடுத்த சராசரி மதிப்பெண் 68, 6 பாடங்களில் கணக்கு தவிர அவரின் சராசரி 72, எனில் கணக்கில் அவர் பெற்ற மதிப்பெண் எது?

(A) 28 (B) 44 (C) 68 (D) 64

82. கிரிக்கெட் குழு வீரர் ஒருவர் 10 தொடர் போட்டிகளில் பெற்ற மிகக் குறைந்த ஓட்டங்கள் 5 அவருடைய ஓட்டங்களின் வீச்சு 87 ஆக இருந்தால் அவர்பெற்ற மிக அதிக ஓட்டங்கள் எவ்வளவு?

(A) 90 (B) 94 (C) 92 (D) 93

83. மூர்த்தி வடக்கு நோக்கி 20 மீ நடந்தான். அவன் பிறகு இடது புறம் திரும்பி 40 மீ நடந்தான். அவன் மீண்டும் இடதுபுறம் திரும்பி 20 மீ நடந்தான். மேலும் வலதுபுறம் திரும்பி 20 மீ நகர்ந்தான் எனில் புறப்பட்ட இடத்திலிருந்து எவ்வளவு தொலைவில் இருப்பான்?

(A) 20 மீ (B) 30 மீ (C) 50 மீ (D) 60 மீ

84. ஒரு வரிசையிலுள்ள மாணவர்களில் இடமிருந்து 5-வது இடத்தில் இராமனும், வலமிருந்து 11-வது இடத்தில் முருகனும் உள்ளனர். இராமன் தற்போது உள்ள இடம் வலமிருந்து 25-வது இடம் என்றால் இராமனுக்கும் முருகனுக்கும் இடையேயுள்ள மாணவர்கள் எத்தனை பேர்?

(A) 14 (B) 13 (C) 15 (D) 12

04268-221524,9677626663, 9677628444
www.peraavalacademy.com

(85-87) விடையளி

P,Q,R,S,T,U,V மற்றும் W ஆகிய எட்டு நண்பர்கள் ஒரு வட்டமான மேசையைச் சுற்றி மையத்தைப் பார்த்த வண்ணம் அமர்ந்துள்ளனர்.

கூற்று: I - D-க்கு அருகில் இடப்பக்கம் W உள்ளார். ஆனால் அவர் T மற்றும் S-க்கு பக்கத்தில் இல்லை

கூற்று: II - Q-க்கு அருகில் வலப்பக்கம் U உள்ளார். மேலும் அவர் V -யும் T-யும் ஒருவருக்கொருவர் பக்கத்தில் உள்ளனர்.

கூற்று:III - R.,T-க்கும் U-க்கும் இடையே உள்ளார். எனில் கீழ்க்கண்ட வினாக்களுக்கு விடையளி

85. V-இன் நிலை எது

(A) W-க்கு அருகில் வலப்பக்கம் உள்ளார். (B) T-க்கு R-க்கும் இடையில் உள்ளார்.

(C) U-க்கு வலப்பக்கம் 3-ஆவது இடத்தில் உள்ளார். (D) S-க்கு இடப்பக்கம் 2-ஆவது இடத்தில் உள்ளார்.

86. கீழ்க்கண்டவைகளுள் எது உண்மை?

(A) U-வும் V-யும் ஒருவருக்கொருவர் பக்கத்தில் அமர்ந்துள்ளனர்.

(B) W-க்கும் T-க்கும் நடுவில் V- உள்ளார்

(C) P-க்கும் S-க்கும் நடுவில் W- உள்ளார்

(D) U-க்கும் Q-க்கும் நடுவில் T- உள்ளார்

87. S - இன் நிலை எது?

(A) Q-க்கும் U-க்கும் இடையில் உள்ளார்.

(B) P-க்கு அருகில் இடதுபுறம் உள்ளார்

(C) U-க்கு வலப்பக்கம் 2-ம் இடத்தில் உள்ளார்.

(D) Q-க்கு அருகில் இடது புறம் உள்ளார்.

88. அடுத்து வரும் எண் காண்க?

3,12,27,48,75,108, ?

(A) 192 (B) 162 (C) 183 (D) 147

89. கீழ்க்கண்ட ஆங்கில வார்த்தைகளை ஆங்கில அகராதியில் வரிசைப்படுத்தப்பட்டிருப்பின் அதில் முதலாவதாக வரும் வார்த்தை எது?

A) Tenacious (B) Terminate (C) Temp eratine (D) Temple

90. ஆங்கில அகராதியில் வரிசைப்படுத்தப்பட்டால் நடுவில் வரும் வார்த்தை எது?

(A) Entry (B) Efflorescent (C) Entreat (D) Ensure (E) Every

91. கீழ்க்கண்டவற்றை ஆங்கில அகராதியில் உள்ளபடி வரிசைப்படுத்துக?

1. Liver 2. Long 3. Late 4. Load 5. Luminous

(A) 1,2,3,4,5 (B) 4,3,2,1,5 (C) 3,1,4,2,5 (D) 3,1,2,4,5

92. வரிசைப்படுத்துக?

I. ஜாதி II. குடும்பம் III. புதிதாக திருமணமான தம்பதி IV. வம்சம் V. வகை

(A) 2,3,1,4,5 B) 3,2,1,4,5 (C) 3,4,5,1,2 (D) 4,5,3,2,1

93. மதன், மீனா என்ற பெண்ணை தனது உறவினருக்கு அறிமுகப்படுத்தி பின்வருமாறு கூறிகிறான். அவளுடைய தந்தை என்னுடைய தந்தையின் ஒரே மகன் எனில், மீனா பாஸ்கருக்கு என்ன உறவு?

(A) அம்மா (B) மருமகள் (C) தந்தை (D) மகள்

04268-221524,9677626663, 9677628444
www.peraavalacademy.com

TNUSRB STUDY MATERIALS

AVAILABLE

- தமிழ்
- ஆங்கிலம்
- வரலாறு
- இந்திய சுதந்திர போராட்டம்
- இந்திய அரசியலமைப்பு
- கணிதவியல்
- பொருளியல்
- புவியியல்
- இயற்பியல்
- வேதியியல்
- தாவரவியல்
- விலங்கியல்
- கணிதம்
- உளவியல்
- நடப்பு நிகழ்வுகள்

100% வெற்றி நிச்சயம்

இதுவரை நடைபெற்ற சிறுவட்ட பணியாளர் தேர்வுகளில் 1000 க்கும் மேற்பட்டோர்கள் தேர்வில் வெற்றி பெற்று தமிழ்நாடு அரசு துறையில் பணியாற்றி வருகின்றனர்

தேர்வில் எதிர்பார்க்கப்படும் முக்கிய வினாக்கள், முந்தைய வரு. வினாத்தாள்கள், சமச்சீர் கல்வி முக்கியப் பாடக் குறிப்புகள் மற்றும் மாதிரி வினா-விடைகள் உள்ளடக்கியது.

நேரடி விற்பனை

பேராவல் அகாடமி®

(அரசு பதிவு எண்.17/2013)

நிறுவனர்: **G. விஜயராகவன்** M.Sc., M.B.A., M.A.,

1F/10, இந்தியன் பேங்க் மேல்வரிசை, பழைய எம்.எல்.ஏ. பாலம் தொடு, பழைய செஞ்சி, நாமக்கல் மாவட்டம்.

போன்: 04268-221524, 96776 26663, 96776 28444

www.peraavalacademy.com

94. கொடுக்கப்பட்ட வார்த்தைகளுக்கு ஏற்ற படம் எது? எலி, பறவை, குருவி

(A) 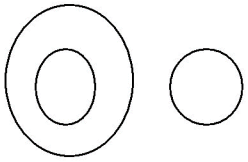

(B) 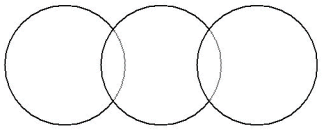

(C) 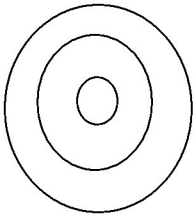

(D) 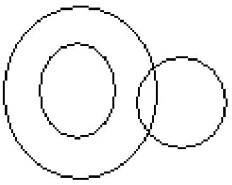

95. 1,9,17,33,49,73,____?

(A) 100 (B) 99 (C)98 (D) 97

96. 1,6,15,___?,45,66,91

(A) 25 (B) 26 (C) 27 (D) 28

97. 2-8, 3-27, 4-32, 5-125 பொருத்தமற்றது எது?

(A) 2-8 (B) 3-27 (C) 4-32 (D) 5-125

98. 3-4, 4-7, 5-12, 20-21 பொருத்தமற்றது எது?

(A) 20-21 (B) 5-12 (C) 4-7 (D) 3-4

(99-101).ஒரு ரகசிய மொழியில் pod na joc என்றால் Very bright boy என்றும், tam nu pod என்றால் the boy comes என்றும். nu per ion என்றால் keep the doll என்றும், joc ton su என்றால் very good doll என்றும் பொருள் எனில்?

99. Boy என்பதன் ரகசிய மொழி என்ன?

(A) joc (B) too (C) tam (D) pod

100. doll என்பதன் ரகசிய மொழி என்ன?

(A) joc (B) ton (C) na (D) nu

101. bright என்பதன் ரகசிய மொழி என்ன?

(A) na (B) pod (C) ton (D) joc

102. விடுபட்ட எண்ணை காண்க?

4,16, ____, 64,100,144

(A) 32 (B) 34 (C) 30 (D) 36

103. I. கருத்துகள் தரப்பட்ட விவரங்கள்

a) சில கார்கள் ரயில்களாக உள்ளன.

b) சில ரயில்கள் விமானங்களாக உள்ளன.

முடிவுகள்

(i). சில ரயில்கள் கார்களாக உள்ளன.

(ii). சில விமானம் ரயில்களாக உள்ளன.

(iii). சில கார்கள் விமானங்களாக உள்ளன.

(iv). எந்த விமானமும் கார்களாக இல்லை.

பேராவல் தொடர்பு பயிற்சி மையம்

04268-221524,9677626663, 9677628444
www.peraavalacademy.com

(A) முடிவு (i), (ii), (iii) சரி

(B) முடிவு (i), (ii), (iii) இதில் ஏதேனும் ஒன்று மட்டும் சரி

(C) முடிவு (i), (ii), (iiv) சரி

(D) அனைத்தும் சரி

[104-110] கீழ்க்கண்ட படத்தில் வட்டம் என்பது நடனம் ஆடுபவர்கள் முக்கோணம் என்பது பாடகர்கள் செவ்வகம் என்பது நடிகர்கள் எனில் கீழ்க்கண்ட வினாக்களுக்கு விடையளி?

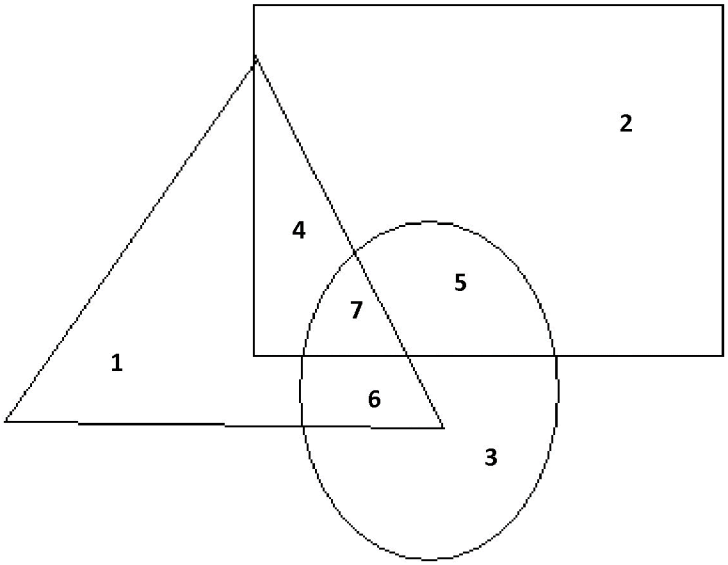

104. நடனம் மட்டும் ஆடுபவர்கள் எத்தனை பேர்?

(A) 5 (B) 3 (C) 6 (D) 7

105. நடிகர்கள் மட்டும் எத்தனை பேர்?

(A) 2 (B) 4 (C) 7 (D) 5

106. பாடகர்கள் மட்டும் எத்தனை பேர்?

(A) 6 (B) 4 (C) 7 (D) 1

107. நடிகர்களில் பாடத் தெரிந்தவர்கள் எத்தனை பேர்?

(A) 11 (B) 10 (C) 9 (D) 8

108. நடிகர்களில் நடனம் ஆடத்தெரிந்தவர்கள் எத்தனை பேர்?

(A) 9 (B) 10 (C) 11 (D) 12

109. பாடகர்களில் நடனம் ஆடத் தெரிந்தவர்கள் எத்தனை பேர்?

(A) 10 (B) 11 (C) 12 (D) 13

110. நடிகர், பாடகர், நடனம் போன்ற அனைத்து கலையிலும் சிறந்தவர்கள் எத்தனை பேர்?

(A) 5 (B) 4 (C) 6 (D) 7

111. ஒரு ஊரில் உள்ள 50 வீடுகளில், 30 வீடுகளில் தொலைக்காட்சிப் பெட்டி இருக்கின்றது. 35 வீடுகளில் வானொலிப்பெட்டி இருக்கின்றது. எத்தனை வீடுகளில் இரண்டும் இருக்கின்றன?

(A) 20 (B) 15 (C) 6 (D) 10

04268-221524,9677626663, 9677628444
www.peraavalacademy.com

112. தவறான எண்ணைக் கண்டுபிடிக்கவும்?

89, 78, 86, 80, 85, 82, 83

(A) 86 (B) 78 (C) 80 (D)85

113. 789, 645, 545, 481, 440, 429, 425

(A) 429 (B) 440 (C) 545 (D) 645

114. BALLON என்பதை 2 – 1 – 3 – 3 – 6 – 6 – 5 என்றும் DAMAGES என்பதை 4 – 1 – 4 – 1– 7 –5 – 1 என்றும் குறித்தால் SYSTEM என்பதை எவ்வாறு குறிக்கலாம்?

(A) 171524 (B) 151724 (C) 171254 (D) 172154

115. GARDEN என்பதை 543210 என்றும் MOST என்பதை 6789 என்றும் குறித்தால் RANDOM என்பதை எவ்வாறு குறிக்கலாம்?

(A) 342067 (B) 342076 (C) 340276 (D) 324076

116. ஒரு சங்கேத மொழியல் BE என்பதை 10 என்றும், CAR என்பதை 54 என்றும் குறித்தால் BET என்பதை எவ்வாறு குறிக்கலாம்?

(A) 200 (B) 300 (C) 400 (D) 500

117. விடுபட்டதை நிரப்புக

21	56	70
45	87	84
115	180	?

(A) 75 (B) 87 (C) 120 (D) 130

118.

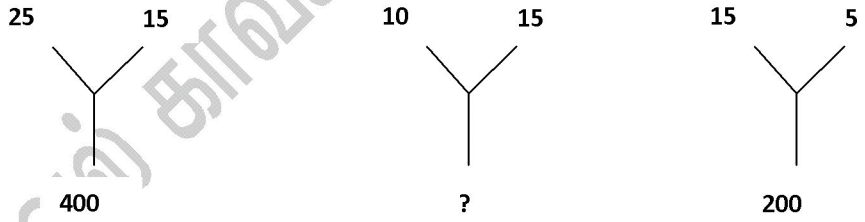

(A) 50 (B) 75 (C) 100 (D) 300

119.

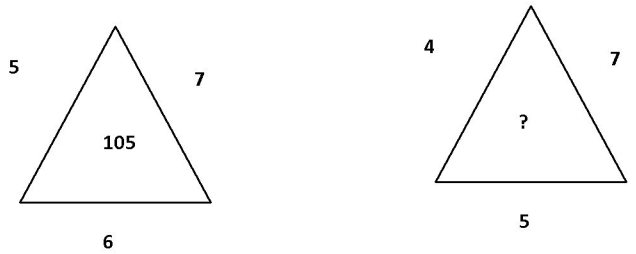

(A) 80 (B) 70 (C) 75 (D) 65

04268-221524,9677626663, 9677628444
www.peraavalacademy.com

120.இருவரின் வயதுகளின் விகிதம் 3 : 4, ஒவ்வொருவரின் வயதிலும் 6 அதிகரிக்கப்படும் போது அந்த விகிதமானது 4 : 5 என மாறுபடுகிறது எனில் இரண்டு நபர்களின் வயதுகளுக்கு இடையேயான வித்தியாசம் எவ்வளவு?

(A) 5 (B) 3 (C) 6 (D) 8

121.மூன்று நாணயங்கள் சுண்டும் பொழுது குறைந்த பட்சம் 2 தலைகள் கிடைப்பதற்கான நிகழ்தகவினை காண்க?

(A) $\frac{1}{4}$ (B) $\frac{1}{2}$ (C) $\frac{1}{3}$ (D) $\frac{1}{8}$

122.ஒரு சங்கேத மொழியில் 'சிவப்பு' என்பது நீலம் எனவும், நீலம் என்பது பச்சை எனவும், பச்சை என்பது வெண்மை எனவும், வெண்மை என்பது ஆரஞ்சு எனவும், ஆரஞ்சு என்பது கருப்பு எனவும் குறிக்கப்பட்டால் மல்லைகைப்பூ -வின் நிறம் என்ன?

(A) நீலம் (B) பச்சை (C) வெண்மை (D) ஆரஞ்சு

123.ஒருவர் ஒரு தேர்வில் ஒவ்வொரு சரியான பதிலுக்கும் 4 மதிப்பெண் பெறுகிறார். ஒவ்வொரு தவறான பதிலுக்கும் ஒரு மதிப்பெண் இழக்கிறார். அவர் 50 கேள்விகளுக்கு பதில் எழுதி 50 மதிப்பெண்கள் பெற்றால் அவர் சரியாக எழுதிய கேள்விகள் எத்தனை?

(A) 25 (B) 24 (C) 20 (D) 30

124.ஒரு பள்ளியில் மொத்தம் 420 மாணவர்கள் உள்ளனர். ஒவ்வொரு 20 மாணவர்களுக்கும் ஒரு மாணவர் தலைவர் உள்ளார். எனில் மொத்தம் எத்தனை மாணவர் தலைவர்கள் உள்ளனர்?

(A) 21 (B) 23 (C) 22 (D) 20

125.காலண்டர் : நாட்கள் : : அகராதி : _____

(A) மணிகள் (B) படங்கள் (C) எண்கள் D) சொற்கள்

126.மயில்களின் எண்ணிக்கையானது 1/3 பங்கு குருவிகள் எண்ணிக்கைக்கு சமம். குருவிகளானது காகங்களின் எண்ணிக்கையில் 2/5 பங்கு உள்ளது. மொத்த காகங்கள் 30 எனில் மயில்களின் எண்ணிக்கை யாது?

(A) 3 (B) 4 (C) 5 (D) 6

127.மனிதனின் சிந்தனையின் தன்மையை உயர்த்துவது?

(A) நினைவு (B) மொழி (C) நூண்ணறிவு (D) கவனம்

128.8971 : 9072 : : 9375 :?

A) 9274 (B) 9476 (C) 9173 (D) 9577

129.ஓர் அசலுக்கு 5 ஆண்டுகளில் கிடைக்கும் வட்டி ரூ.75 எனில் அதே அசலுக்கு அதே வட்டி வீதம் ரூ.120 எனில் கிடைக்க ஆகும் ஆண்டு?

(A) 7 (B) 8 (C) 6 (D) 5

130.DZ 3 – R – 3 – Z – 5 – ?

(A) 3, 38, Y, 1, X B) 0, T, 8, Y, 1 (C) T, 3, Y, 1, 0 (D) None of above

131. x/y = 3/5 எனில் 15x = ?

(A) 19y (B) 9y (C) 5y (D) 6y

132.ஒரு எண்ணில் 75% உடன் 75 கூட்டினால் அதே எண் கிடைக்கிறது எனில் அந்த எண் யாது?

(A) 250 (B) 300 (C) 350 (D) 400

133.P : 7 = 12 : 21 எனில் P

(A) 6 (B) 4 (C) 7 (D) 3

04268-221524,9677626663, 9677628444
www.peraavalacademy.com

134.சிறிய எண் யாது?

(A) 11/20 (B) 18/37 (C) 8/15 (D) 5/8

135.தவறான எண் யாது?

(A) 28,4 (B) 63,7 (C) 35,5 (D) 56,8

136.01 : 04 : : 05 : ?

(A) 08 (B) 20 (C) 06 (D) 25

137.+ என்பது ÷, ÷, என்பது X, X என்பது – என்றால் 8 + 40 ÷ 8 X 5 = ?

(A) 30 (B) None of above (C) 165 (D) 60

138.ரூ.600 அசலுக்கு வட்டி ரூ.36 எனில், அதே வீதத்தில் ரூ.250க்கு வட்டி எவ்வளவு?

(A) ரூ.10 (B) ரூ.15 (C) ரூ.5 (D) ரூ.20

139.ஒரு அலுவலரின் சம்பளம் முதலில் 40% குறைக்கப்பட்டு பின்னர் 50% உயர்த்தப்பட்டால் அவருக்கு ஏற்படும் இழப்பு எத்தனை சதவீதம்?

(A) 15 (B) 10 (C) ஒன்றுமில்லை (D) 5%

140.BOU என்பது ANT என குறிப்பிட்டால் DBU என்பது எப்படி குறிக்கப்படும்?

(A) BAT (B) CAT (C) RAT (D) EAT

ALL THE BEST

"காலம் பொன் போன்றது".....

04268-221524,9677626663, 9677628444
www.peraavalacademy.com